56 Losange

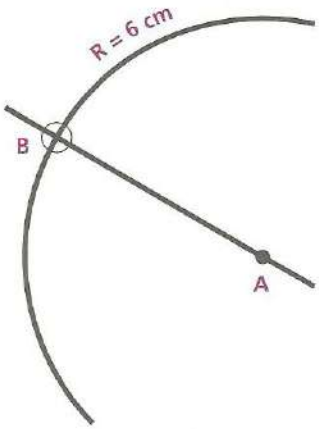

1. Trace la droite oblique. Place le point A.
Trace l'arc de cercle de centre A. Tu obtiens le point B.

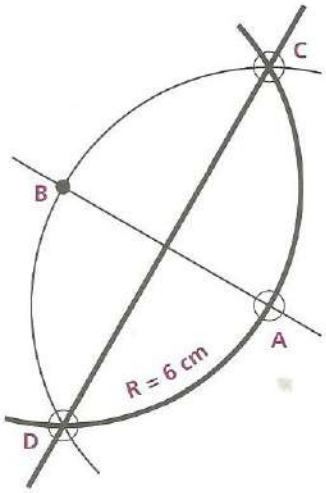

2. Trace l'arc de cercle de centre B. Tu obtiens les points C et D. Trace la ligne perpendiculaire qui passe par C et D.

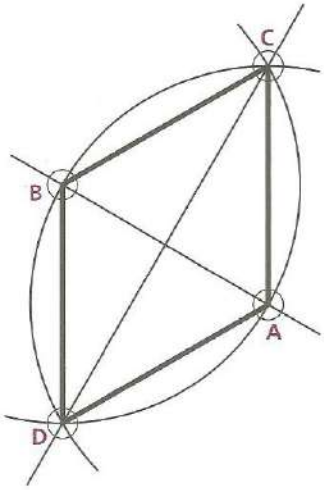

3. Relie les sommets du losange.

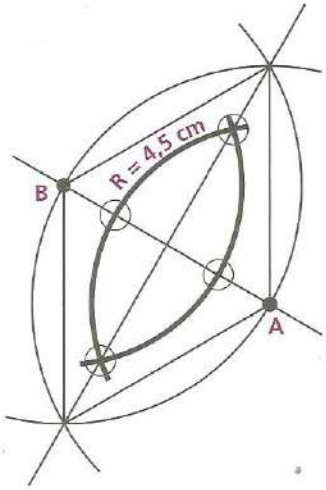

4. Pique la pointe de ton compas en A et en B pour tracer les arcs de cercle intérieurs. Repère bien les points obtenus.

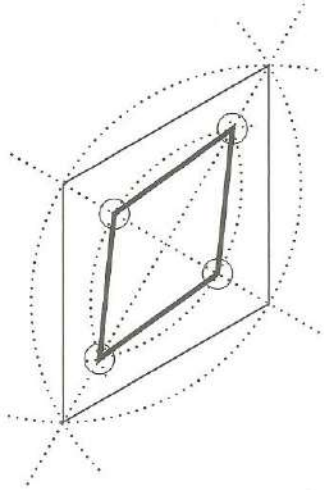

5. Relie les sommets du losange intérieur. Gomme les traits en pointillés.

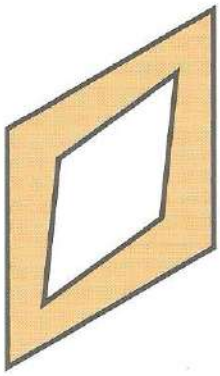

6. Colorie la figure.

Géométrie en autonomie, © Retz / S.E.J.E.R., 2004.