Prénom : _____ Date : _____ CM2

Histoire : L'âge industriel en France

Fiche 2 : Énergies et machines

Les progrès techniques révolutionnent les transports.



Document 1 : *La Gare Saint-Lazare*, **Claude Monet**, **1877**, **Musée d'Orsay**, **Paris** *(huile sur toile, 75,5 cm x 104 cm)*

➡ **Réponds** aux questions suivantes :

1. Quel est la nature du document 1 ?
2. Quel est le titre du document 1 ?
3. Qui l'a réalisé ?
4. Où peut-on le trouver ?
5. Que représente ce tableau ?
6. Selon toi, comment fonctionne ce train ? Comment le sais-tu ?
7. À ton avis, pourquoi, à cette époque, un peintre s'est-il intéressé à ce sujet ?

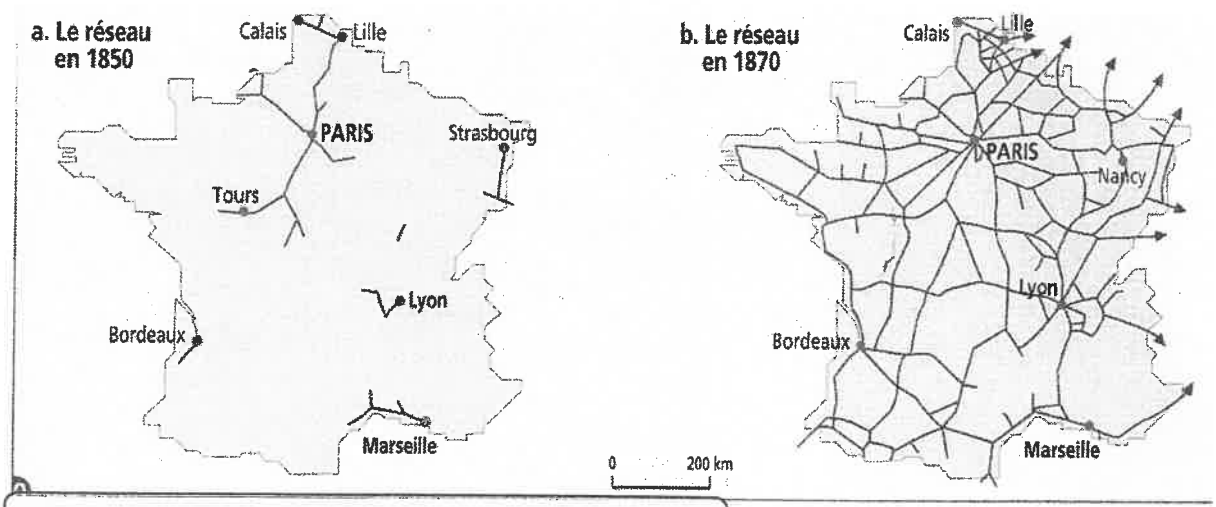

Document 2 : **L'essor des chemins de fer** (1850-1870)

8. Quelles sont les grandes villes desservies par le train en 1850 ?
9. Le réseau ferré s'est-il beaucoup développé entre 1850 et 1890 ? Comment expliques-tu cela ?
10. Cite les conséquences positives du développement du chemin de fer dans un pays ?

Prénom : _____ Date : _____ CM2

Histoire : L'âge industriel en France

Fiche 3 : Énergies et machines

Les progrès techniques et scientifiques au XIXème siècle.

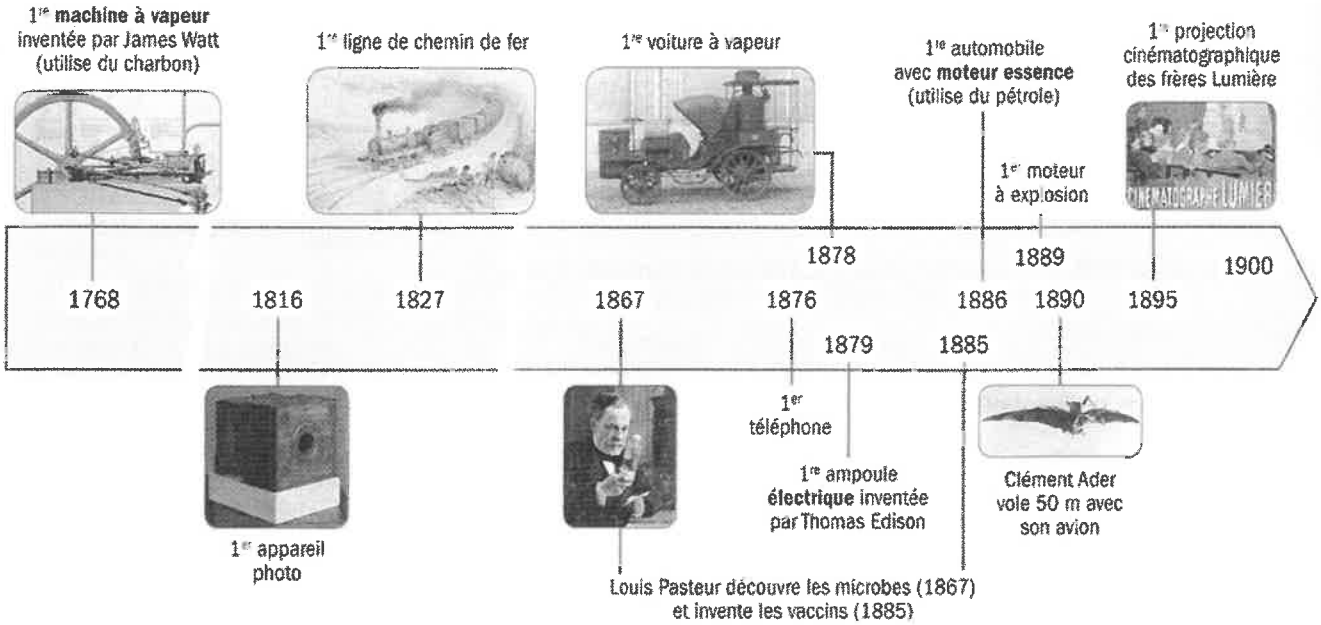

➡ **Relève** les trois énergies différentes exploitées pour de nouvelles inventions.

• _____ • _____ • _____

➡ **Classe** les différentes inventions en fonction de leur utilisation dans les sociétés du XIXème siècle.

Transports	Travail	Santé	Loisirs