PHOTOFICHE 53

49 Lire l'heure (1)

COMPÉTENCE : Lire l'heure (quart et demi).

CALCUL MENTAL – Table de multiplication par 3.

L'enseignant dit : « 6 multiplié par 3 » ; l'élève écrit 18.

Je cherche

A **Observe** les montres à aiguilles et les montres à affichage numérique. **Complète.**

08:15 20:15

Le matin, il est 8 h 15 min.

Le soir, il est .....

06:45 ..... : .....

Le matin, il est ..... h ..... min.

Le soir, il est .....

Comment passe-t-on de l'heure du matin à l'heure du soir ?

.....

On dit :
« 8 heures et quart » pour 8 h 15 min.
« 7 heures moins le quart » pour 6 h 45 min.
« 6 heures et demie » pour 6 h 30 min.

B **Écris** de deux façons les heures du matin.

....

....

....

Je m'entraîne

1 Il est **16 h 15 min** à Paris, **Écris** l'heure, au même moment, dans d'autres villes du monde.

Paris

16 h 15

New York

matin

....

Terre-Neuve

matin

....

Bagdad

soir

....

Pékin

soir

....

2 **Dessine** les aiguilles.

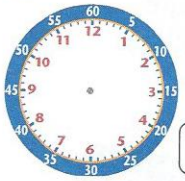

08:30

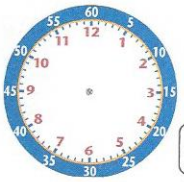

20:45

05:30

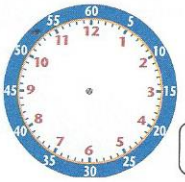

18:15

3 **Complète.**

10 h moins le quart, c'est .....

9 h et quart, c'est .....

10 h et demie, c'est .....